A48 Wie alt können eigentlich Vögel werden?

Wenn du den Term jeweils richtig berechnest, erhältst du als Ergebnis das Höchstalter des abgebildeten Vogels. Schreibe die Klammerergebnisse bzw. das Endergebnis in die Leerkästchen.

Pinguin

(1)

$102 \cdot 0{,}25 - (1{,}3 : 2{,}6)$

Schwalbe

(2)

$(5{,}6 \cdot 2{,}4) + (6{,}4 : 2{,}5)$

Kondor

(3)

$[(25{,}5 \cdot 1{,}8) + 15{,}1] + 86{,}4 : 14{,}4$

Schleiereule

(4)

$(3{,}8 \cdot 3{,}7) - (0{,}4 : \frac{2}{3})$

Strauß

(5)



$(245{,}6 : 3{,}2) - (50{,}5 : 3{,}4)$

Taube

(6)



$(32{,}5 \cdot 4{,}6 + 36) : (9{,}54 : 1{,}8)$

Kolibri

(7)

$(46{,}56 : 2{,}4 + 0{,}6) : (8{,}75 : 3{,}5)$

Huhn

(8)



$(12{,}4 \cdot 6{,}3) - (144{,}36 : 3)$

© AULIS DEUBNER & CO KG, Köln 2000

LA48 Wie alt können eigentlich Vögel werden?

Setze in der Aufgabenreihenfolge die Lösungsbuchstaben in die Leerkästchen ein. Es ergibt sich der Name einer überaus interessanten Vogelfamilie (Abbildung), die besonders durch ein imponierendes Balzverhalten bekannt sind (Tanz der ...)

8 (H) 62 (I) 35 (C) 16 (R)

30 (E) 14 (N) 25 (K) 67 (A)



Die ..... erreichen ein Alter von 60 Jahren.

© AULIS DEUBNER & CO KG, Köln 2000